REGISTRA Y REPRESENTA DATOS

Se realizó una encuesta a los niños de 3 er. grado para averiguar el lugar preferido para pasar un día de excursión.

Se entrego el siguiente papel para cada alumno:

Lugar preferido para 1 día de paseo
Marca con una X el lugar preferido : Campo ☐ Playa ☐ Piscina ☐ Ciudad ☐

Se obtuvo los siguientes datos :

Lugar preferido	Niños	Niñas
Campo	卌 |	卌 ||||
Playa	卌 卌	卌 卌
Piscina	卌 ||	卌 |||
Ciudad	卌 ||	|||

Ahora completa la tabla y registra los datos.

Lugar preferido	Niños	Niñas	Total
Campo			
Playa			
Piscina			
Ciudad			

Elaboramos el gráfico de barras.

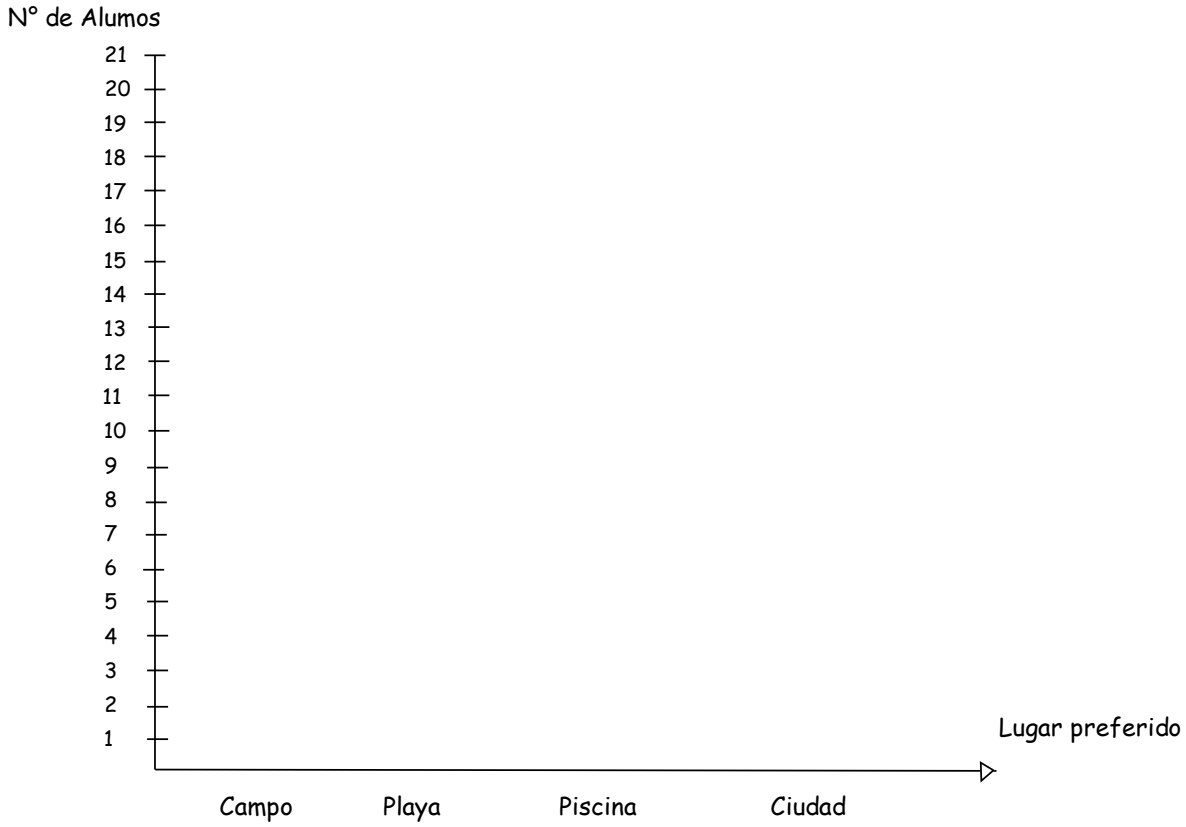

Responde:

¿Cuál es el lugar menos preferidos por los niños?

.....

¿Cuál es el lugar menos preferido por las niñas?

.....

¿Cuál es el lugar que prefieren los niños y las niñas por igual?

.....

¿Cuántos niños de tercer grado contestaron la encuesta?

.....

Gráficos:

Interpretación de Pictogramas de Gráficos de Barras
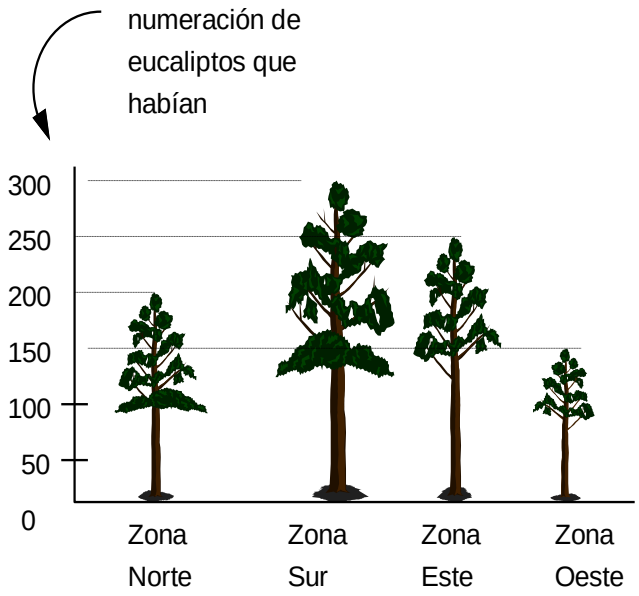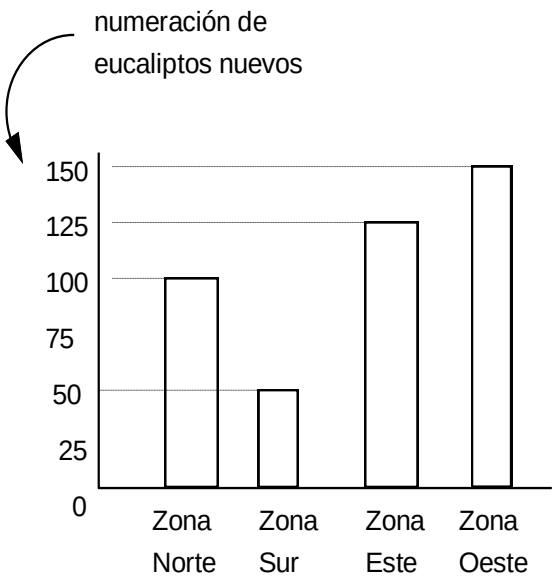
01. En el siguiente pictograma muestra el número de eucaliptos que había en cuatro zonas de una ciudad y el gráfico de barras muestra el número de eucaliptos nuevos que se han plantado en cada zona.